Mi tartozik össze?





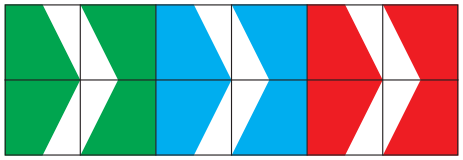

1	2	3	4	5	6
				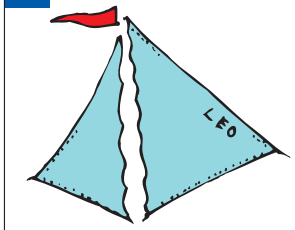	
7	**8**	**9**	**10**	**11**	**12**
					

Keresd meg a zöld képeket!







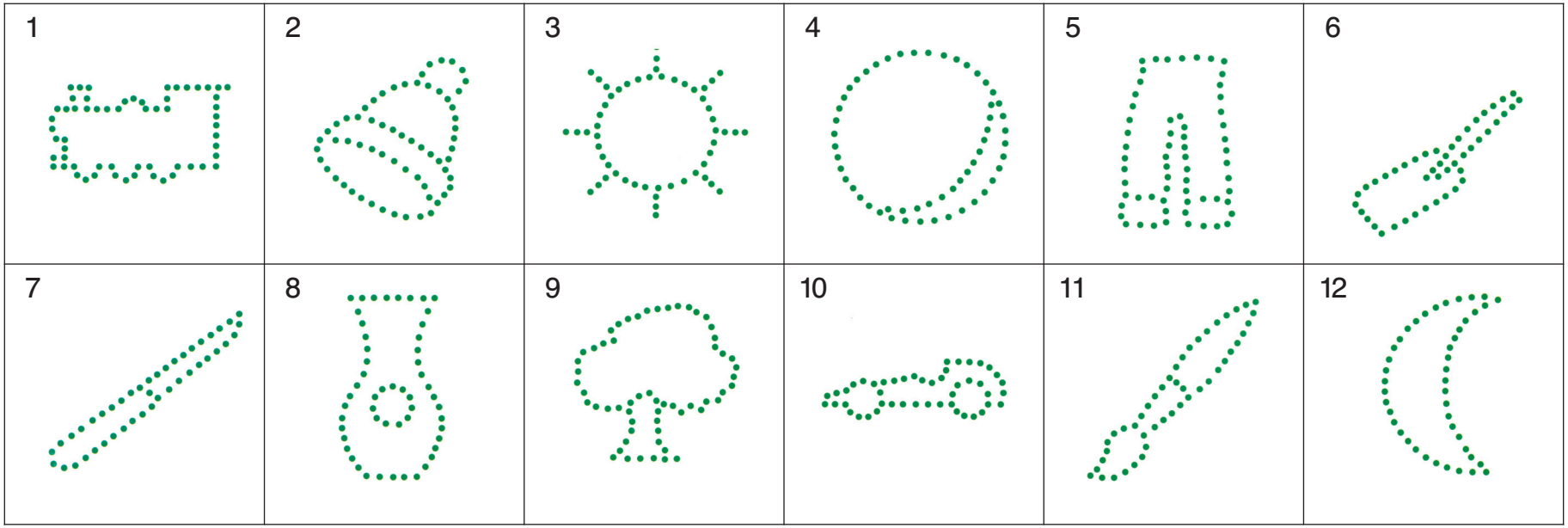
1
2
3
4
5
6
7
8
9
10
11
12

betuktol szavkig_beliv.qxd:Layout 1 7/18/12 10:36 AM Page 4

Keresd meg a körökbe írt szavakat!

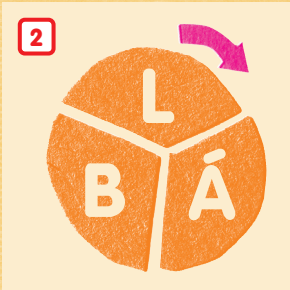

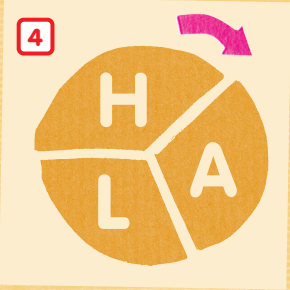



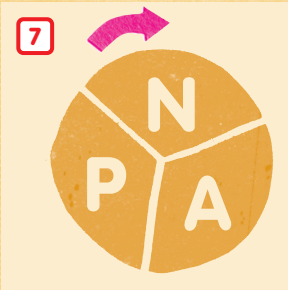

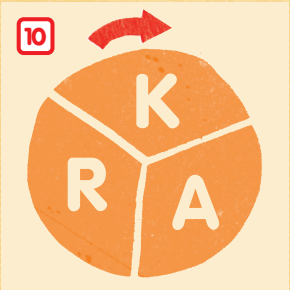





betuktol szavkig_beliv.qxd:Layout 1 7/18/12 10:36 AM Page 5

ORR

1

NAP

2

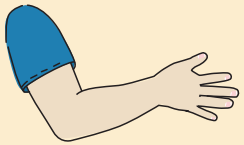

KAR

3

SÜN

4

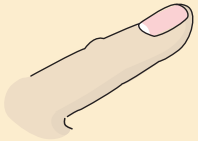

UJJ

5

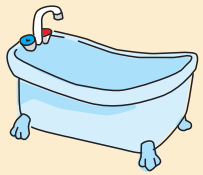

KÁD

6



VÁR

7

HAL

8

ORR

9

KÉZ

10

HAJ

11

ÓRA

12

LÁB

Színes nyilak

1. lefelé mutató, nagy, piros nyíl	2. jobbra mutató, kicsi kék nyíl	3. felfelé mutató, kicsi, piros nyíl	4. lefelé mutató, nagy, kék nyíl
5. jobbra mutató, nagy, piros nyíl	6. lefelé mutató, kicsi, piros nyíl	7. balra mutató, nagy kék nyíl	8. jobbra mutató, nagy, kék nyíl
9. felfelé mutató, nagy, piros nyíl	10. balra mutató, kicsi, kék nyíl	11. jobbra mutató, kicsi, piros nyíl	12. lefelé mutató, kicsi, kék nyíl

lefelé mutató, nagy piros nyíl

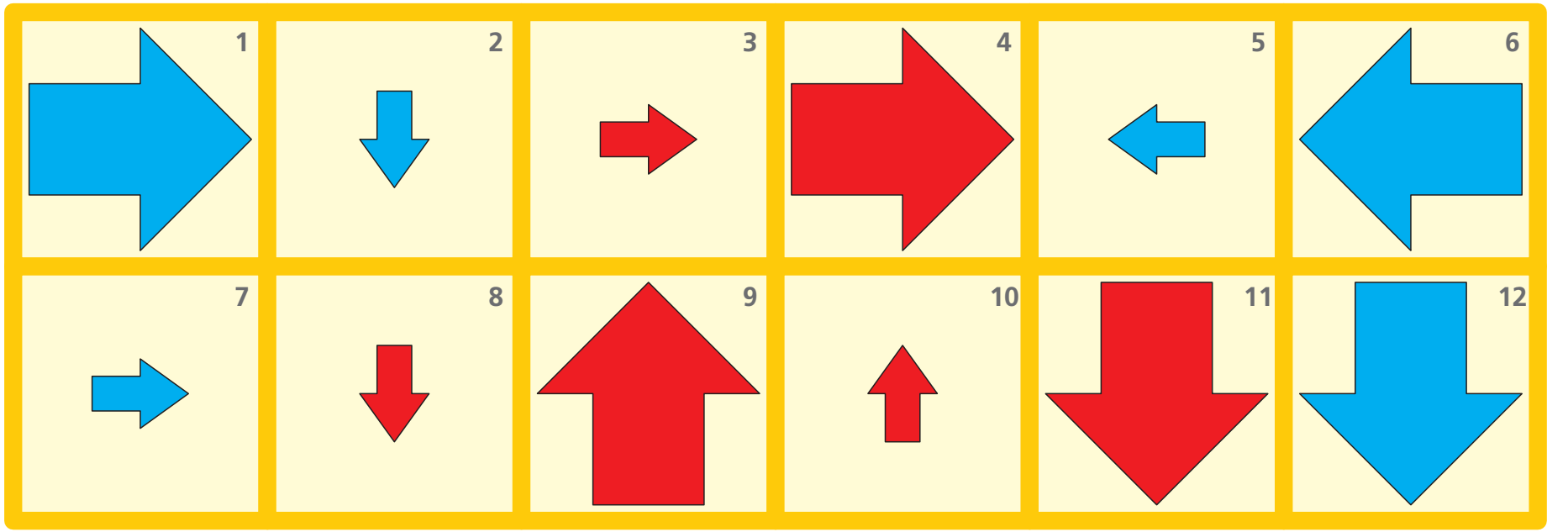
1
2
3
4
5
6
7
8
9
10
11
12

beliv_#Erstes Lesen Fußball 2015.02.28. 9:15 Page 12

A cirkuszban

1. Ricsi szüleivel együtt a cirkuszban, az első sorban ül.
2. Előttük egy bohóc egyensúlyozik egy keréken.
3. Egy másik bohóc labdákat dobál neki.
4. A bohóc valamennyi labdát elkapja.
5. Ricsi is dobhat neki egy labdát.
6. A bohóc a levegőbe dobálja a labdákat és zsonglőrködik.

1.

7. A szünetben Ricsi apukája perecet vásárol.
8. Egy bűvész lép a porondra.
9. Egy üres kalitkát mutat a nézőknek.
10. Ricsi ellenőrizheti a kalitkát.
11. Ezután a bűvész egy kendővel letakarja a kalitkát.
12. Amikor lerántja a kendőt a kalitkáról, már egy fehér galamb ül benne.

PEREC

Add össze a piros és kék golyókat!

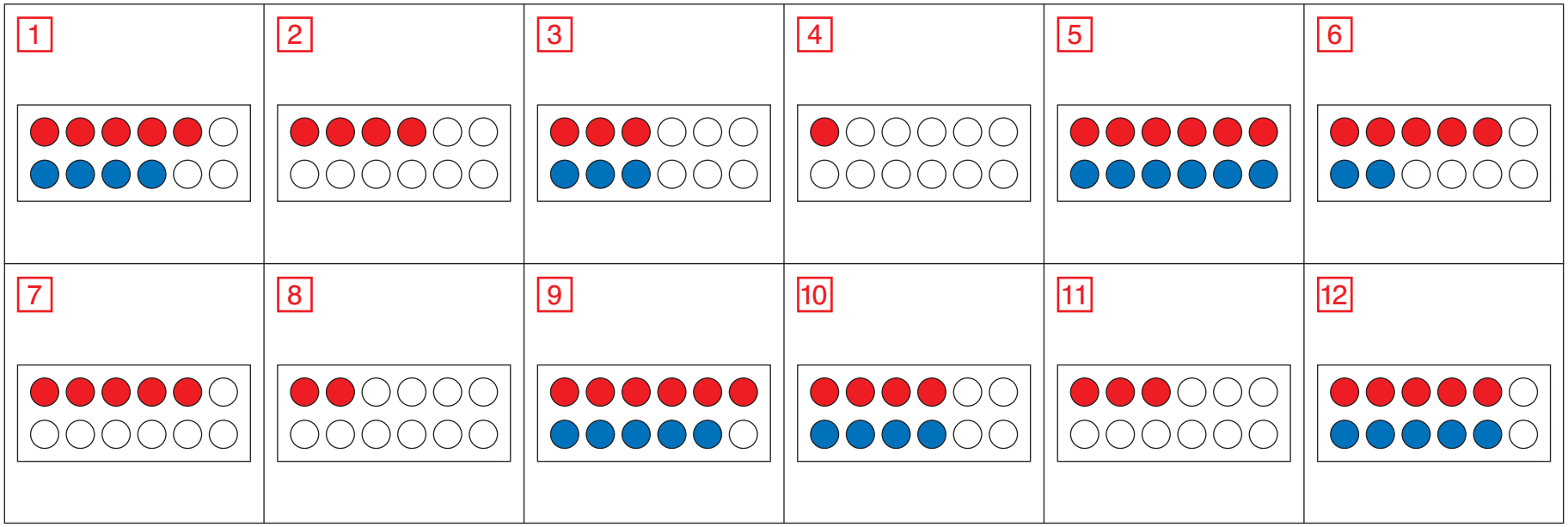

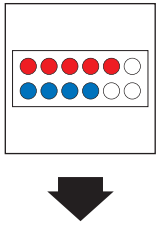

9

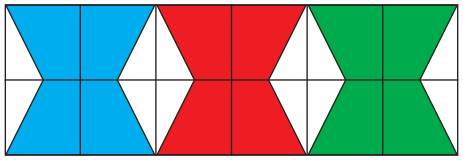

1 **2**	2 **10**	3 **3**	4 **12**	5 **8**	6 **5**
7 **4**	8 **7**	9 **11**	10 **6**	11 **9**	12 **1**

239_beliv 3/9/09 12:13 AM Page 6

6 A

A 4-es szorzótábla: szorzás és bennfoglalás

6 B

1. 4·4=	2. 2·4=	3. 6·4=
4. 8·4=	5. 3·4=	6. 5·4=
7. 1·4=	8. 0·4=	9. 9·4=
10. 7·4=	11. 10·4=	12.

1. 20:4=	2. 12:4=	3. 36:4=
4. 16:4=	5. 28:4=	6. 8:4=
7. 32:4=	8. 4:4=	9. 24:4=
10. 40:4=	11. 0:4=	12.





1. 4·4=

1. 20:4=

16

5

6	9	3	2	5	4
0	7	1		10	8

0	8	32	16	24	36

Találd ki, mely számokat jelöltük meg a számegyenesen!

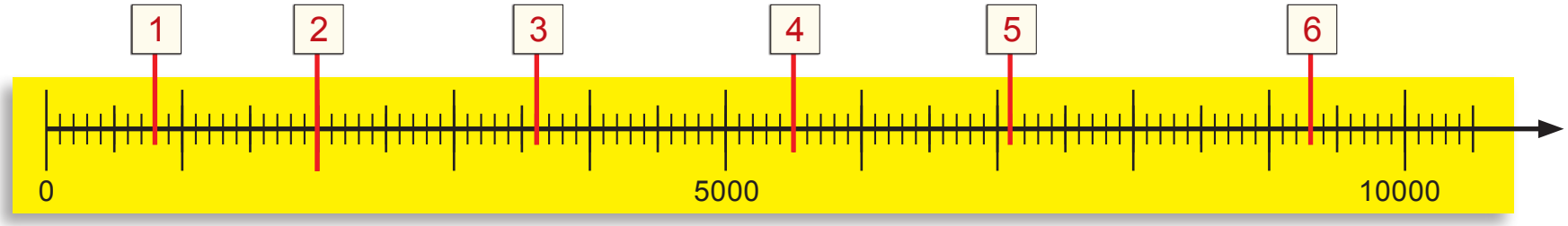

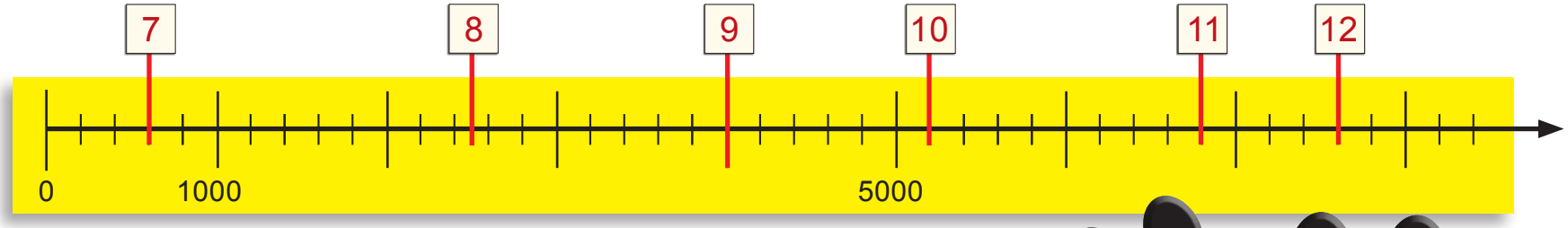





LUK2012_matek3.indd 4 2013.05.29. 09:45:59

800





7600	2500	4000	3600	600	5200
9300	2000	6800	7100	5500	800

LUK2012_matek3.indd 5 2013.05.29. 09:46:00

Mikor, mit csinálnak a gyerekek?



Mit csinál Piri és Tibi 7 órakor? – Délelőtt van vagy délután? – Te mit szoktál csinálni reggel 7 órakor?
Keresd meg a lenti képek közül azt, amelyen az óra 7 órát mutat!

7 óra

Tipp:

A felső képek sorrendjében beszéljük meg a gyerekek napirendjét! Hasonlítsuk össze a saját napirendünkkel! Beszélgessünk arról, hogy általában mit szoktak a gyerekek és a felnőttek délelőtt / délután csinálni!



1

3 óra

2

9 óra

3

12 óra

4

8 óra

5

7 óra

6

10 óra

7

5 óra

8

11 óra

9



6 óra

10

2 óra

11

4 óra

12

1 óra

Az alábbiak közül mit vásárolhatsz meg 200 forintért? Igen ☺ Nem ☹

Keress további példákat arra, hogy mit vehetsz meg 200 Ft-ért,
és mi az, ami ennél egyértelműen sokkal többe kerül.





zsebpenz_luk.indd 7
2016.09.07. 10:02:58